HRADIŠTĚ A, DÚ05a, 04.10.2019
taktika obtížnější

první strana ze dvou

1.příklad Černý na tahu (pš x031)



?

2.příklad Bílý na tahu (pš 3/73)

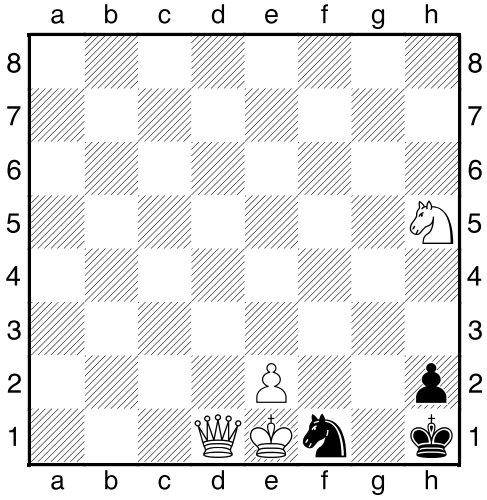

Mat 4.tahem.

3.příklad Bílý na tahu (pš x309)

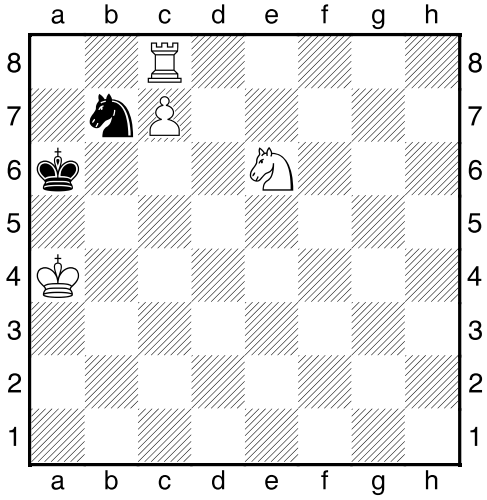

?

4.příklad Bílý na tahu (pš x117)



?

HRADIŠTĚ A, DÚ05a, 04.10.2019
Dámské koncovky

!!! pod každý diagram napište první tah a jak partie dopadne !!!
(1-0, remíza, 0-1)

druhá strana ze dvou

1.příklad Bílý na tahu



?, ?

2.příklad Bílý na tahu



?, ?

3.příklad Černý na tahu



?, ?

4.příklad Černý na tahu



?, ?